Zespół k-k/Klasa 4 i 5/ Jolanta Mleczek

Jeżeli nie masz możliwości wydrukowania, możesz zrobić to na dodatkowej kartce. Miłej zabawy!

2

Wykonaj rysunek według podanego kodu.
Zacznij od kropki.

2→	1↑	1→	1↑	2→	1↓	1→	1↑	1→	1↑
1→	2↓	1←	4↓	2→	1↓	2←	5↓	1→	2↓
1←	1↑	2←	1↓	1←	1↓	1←	1↓	6←	1↑
1←	1↑	1←	1↑	2←	1↓	1←	2↑	1→	5↑
2←	1↑	2→	4↑	1←	2↑	1→	1↓	1→	1↓
1→	1↑	2→	1↓	1→	1↓	2→			

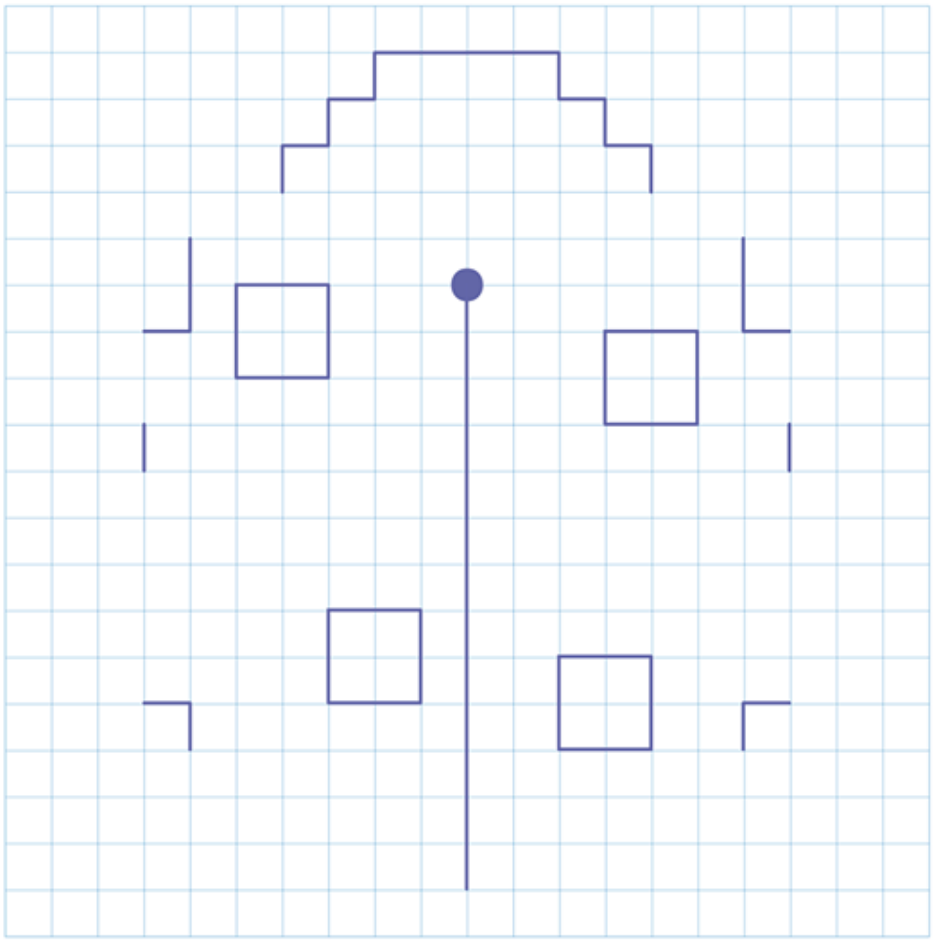

© Czary z drukary 2020

Te liczby są ułożone zgodnie z pewną zasadą. Tylko jedna z dodatkowych liczb pasuje do pola ze znakiem zapytania. Która? Znajdź ją i zaznacz. Obok uzasadnij, dlaczego to właśnie ta liczba pasuje.

a)

1	3	5
7	9	11
13	15	?

2 .....

17 .....

19 .....

b)

3	4	5
4	5	6
5	6	?

7 .....

9 .....

11 .....

c)

2	4	6
3	6	9
5	10	?

5 .....

12 .....

15 .....

d)

2	5	8
4	2	3
8	10	?

24 .....

5 .....

80 .....

Przeczytaj uważnie podane opisy, a następnie, zgodnie z nimi, wykonaj rysunki. Niektóre przedmioty już są „ustawione”.

a) Na półce ustawiono pięć przedmiotów: kubek, szklankę, dzbanek i dwie filiżanki. Kubek postawiono z lewej strony na górnej półce, a dzbanek na środku dolnej półki. Filiżanki ustawiono po obu stronach dzbanka, a szklankę nad dzbankiem.

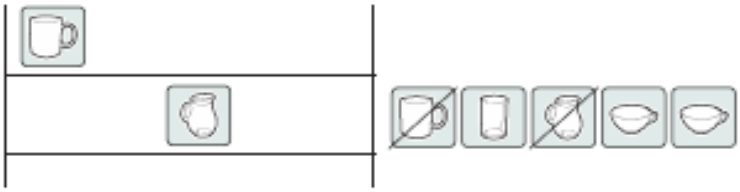

b) Na półce ustawiono pięć przedmiotów: dwa kubki, dzbanek i dwie filiżanki. Dzbanek ustawiono na dolnej półce pomiędzy filiżankami, a na górnej półce ustawiono kubki tak, że jeden stoi nad dzbankiem, a drugi nad lewą filiżanką.

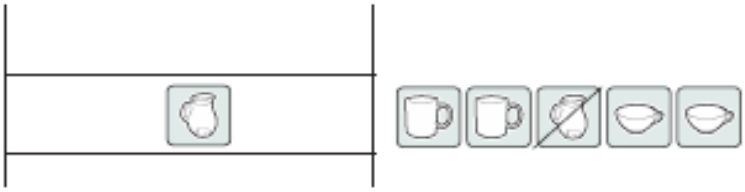

c) Na półce ustawiono pięć przedmiotów: dwa kubki, szklankę, dzbanek i filiżankę. Dwa kubki postawiono obok siebie na górnej półce, szklankę na prawo od nich. Pod szklanką ustawiono filiżankę, a dzbanek stanął na lewo od niej.